わたしたちと政治

小学問題集コア
詳細はここをクリック！
動画
学習サポートの二次元コードが入ります。

わたしたちのくらしと政治のかかわりや、国の政治のしくみについて理解しよう。

1 わたしたちと政治

[1] 地方自治と税金

❶ **地方自治**　**地方公共団体**（都道府県や市区町村）を単位とし、住民が自主的に政治を行う。

❷ **税金**　国や地方公共団体が行う仕事に必要な費用をまかなうため、住民などから集める。道路や施設の整備、警察や消防の仕事、教育、福祉などの公共的な事業に使われる。

所得税	消費税	住民税	法人税	固定資産税
会社員などの給与にかかる税	ものを買ったときにかかる税	市区町村の住民にかかる税	会社にかかる税	土地や建物にかかる税

[2] 選挙

❶ **選挙権**（選挙に立候補（りっこうほ）する権利は被（ひ）選挙権という）　国や地方公共団体の代表者を選ぶ権利。**18歳**以上の国民が選挙権をもつ。

❷ **政党**　政治に対して同じ意見をもつ人々が、政策の実現をめざして組織する。

●衆議院議員総選挙の投票率

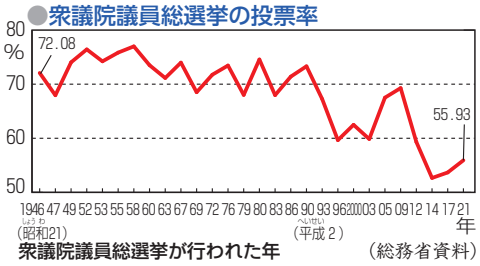

（総務省資料）

❸ **日本の選挙の問題点**

投票する人が減っている。➡期日前投票や不在者投票など。

2 国の政治

[1] 国会（立法権）

❶ **国会**　国会議員（選挙で選ばれる）が国の政治の方向を話し合って決める。日本国憲法で「国権の最高機関であり、国の唯一の立法機関」とされている。

❷ **二院制**　国会は、議員数などにちがいがある衆議院と参議院から成り立っている。⬅慎重に話し合いを進めるため。

衆議院		参議院
465人	議員数	248人
25歳以上	被選挙権	30歳以上
小選挙区と比例代表	選挙区	選挙区と比例代表
4年 解散がある	任期	6年（3年ごとに半数を改選） 解散がない

参考

●地方議会

選挙で選ばれた議員が、地方公共団体の政治について話し合う機関。

重要用語

●政党

与党	内閣を組織し、政権を担当する。
野党	与党の政治をチェックする。

参考

●国会議事堂

▲国会が開かれる建物。

重要資料

●国会の主な仕事

- 法律を定める。
- 国の予算を決める。
- 外国と結んだ条約を承認する。
- 内閣総理大臣を選ぶ。
- 内閣の不信任を決める（衆議院）。
- 裁判所の裁判官を裁判する。

[2] 内閣(行政権)

❶ **内閣**　内閣総理大臣と国務大臣で構成され、国会で決まった予算や法律にもとづいて実際に政治を行う。内閣のもとで、文部科学省(教育や科学などに関する仕事)や外務省(外国との関係に関する仕事)などの省や庁が実際の仕事を進める。

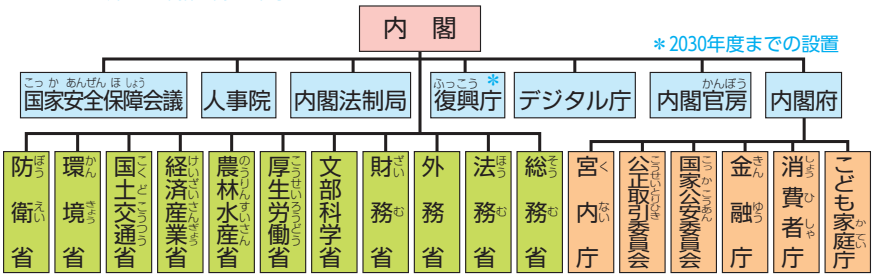

❷ **内閣総理大臣(首相)**　内閣の中心。国会議員の中から国会によって指名される。省の長である国務大臣を任命する。

[3] 裁判所(司法権)

❶ **裁判所**　憲法や法律にもとづいて争いごとを解決したり、犯罪をさばいたりして、国民の権利を守る。

❷ **三審制**　裁判のあやまりを防いで人権を守るため、1つの事件につき3回まで裁判を受けることができるしくみ。

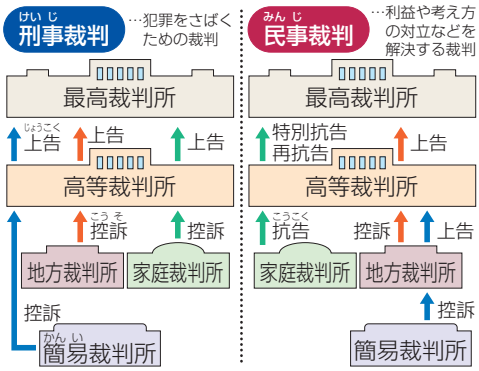

控訴…1回目の判決に不服の場合、2回目の裁判を求めること。
上告…2回目の判決に不服の場合、3回目の裁判を求めること。
抗告…「判決」ではない「決定・命令」が不服な場合のうったえ。

❸ **裁判員制度**(2009年に始まった)　国民の中からくじで選ばれた人が、裁判官とともに裁判に参加する制度。裁判に国民の感覚をいかすことが目的。
(有罪(ゆうざい)・無罪の判決や、有罪の場合の刑罰(けいばつ)の重さを決める)

[4] 三権分立

❶ **三権分立**　**立法権**、**行政権**、**司法権**の3つの権力を、国会、内閣、裁判所が担当するしくみ。権力が1つの機関に集中することがないように、それぞれの機関が独立し、仕事を監視し合っている。

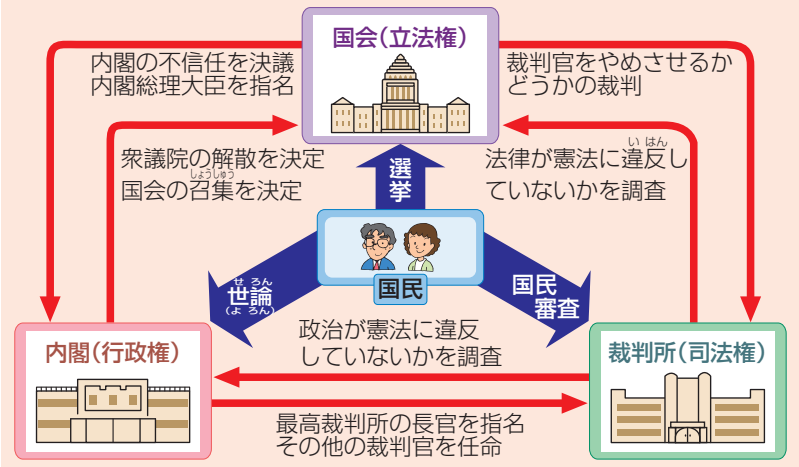

重要資料

●内閣の主な仕事

- 国会が決めた法律や予算をもとに、実際に政治を行う。
- 法律案や予算案をつくり、国会に提出する。
- 外国と条約を結ぶ。
- 最高裁判所の長官を指名し、その他の裁判官を任命する。
- 衆議院の解散を決める。

●閣議

▲内閣総理大臣と国務大臣が出席して、内閣の仕事の進め方を決める。そして閣議で決められたことが政府の方針となる。原則、非公開で行われる。

プラススタディ

●投票しないとどうなる？

日本の選挙では、投票は有権者の権利なので「棄権」することもできる。ところが世界には、選挙での投票を義務としている国がある。例えばオーストラリアは、正当な理由なく投票しなかった人には、20ドル(約2000円)の罰金を科している。おかげで投票率はかなり高いようだ。ヨーロッパにも罰金制度を設けている国があるし、さらに重い罰としては投獄などという国もあって、そもそも「棄権」する自由がない国さえあるのだ。

●世論調査はどうやってる？

内閣支持率や政策への賛否、くらしぶりなどに関して、新聞社やテレビ局などは定期的に世論調査を行って結果を公表している。ある新聞社の場合、コンピュータがランダムに数字を組み合わせた番号に電話をかけて、その本人や家族を対象に調査項目を質問して回答を得ている。回答者は性別や年齢層、住んでいる地域などにかたよりがないように調整されるが、だいたい2000人の回答があれば統計学的には問題ないとされる。

確認しよう

まとめノート

●資料でまとめよう　次の資料中の（　　）にあてはまる数字やことばを答えなさい。

⇩衆議院と参議院

衆議院		参議院
465人	議員数	248人
（①　　）歳以上	被選挙権	（②　　）歳以上
小選挙区と比例代表	選挙区	選挙区と比例代表
（③　　）年 （⑤　　）がある	任期	（④　　）年 （3年ごとに半数を改選） ⑤がない

⇩三審制のしくみ

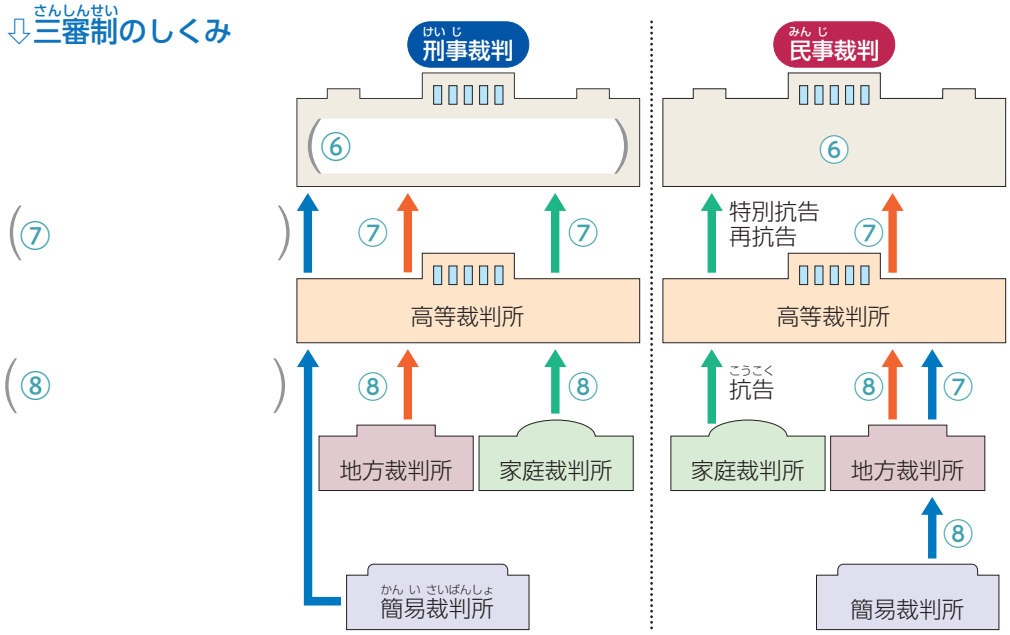

⇩三権分立のしくみ

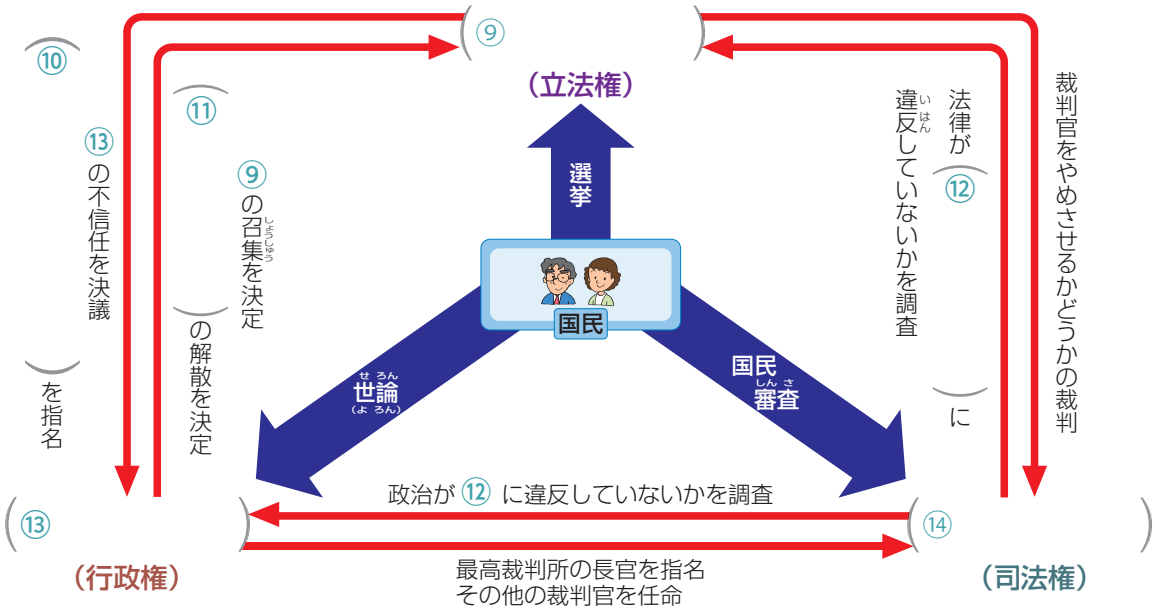

1 わたしたちと政治 次の問いに答えなさい。

① 地方の政治の単位となる、都道府県や市区町村のことを何といいますか。

② ①の住民が、その地域の政治を自主的に行うことを何といいますか。

③ 国や①が、道路などの整備や、教育などの公共的な事業などの費用をまかなうために、住民などから集めるお金を何といいますか。

④ ③のうち、ものを買ったときにかかるものを何といいますか。

⑤ 18歳以上の国民に認められている、国や①の代表者を選ぶ権利を何といいますか。

⑥ 政治について、同じ目的をもつ人々が、その政策を実現するために組織する集団を何といいますか。

2 国の政治 次の（　　）にあてはまることばを答えなさい。

① 国会は、法律を制定する（　　）権を担当している。

② 国会は、日本国憲法において、「国権の（　　）であり、国の唯一の立法機関である」と定められている。

③ 日本の国会は、衆議院と（　　）からなる二院制をとっている。

④ 内閣は、国会が決めた法律や予算にもとづいて、実際に政治を行う（　　）権を担当している。

⑤ 内閣の中心となって政治を行う（　　）は、国会議員の中から選ばれる。

⑥ 文部科学省や外務省などの行政機関の長を（　　）といい、⑤によって任命される。

⑦ 右の資料は、内閣の仕事の進め方を決める（　　）の様子である。

⑧ 裁判所は、法にもとづいて争いごとを解決したり、犯罪をさばいたりする（　　）権を担当している。

⑨ 裁判の種類のうち、犯罪をさばくための裁判を、（　　）という。

⑩ 日本では、裁判のあやまりを防いで人権を守るために、1つの事件につき3回まで裁判を受けることができる（　　）というしくみをとっている。

⑪ 2009年から、くじで選ばれた国民が、裁判官とともに裁判に参加する（　　）制度が取り入れられた。

⑫ 国の権力を3つに分け、国会、内閣、裁判所が担当するしくみを、（　　）という。

1

①

②

③

④

⑤

⑥

2

① 　　権

②

③

④ 　　権

⑤

⑥

⑦

⑧ 　　権

⑨

⑩

⑪ 　　制度

⑫

練習しよう

1 わたしたちと政治　次のA、Bの文章を読んで、あとの問いに答えなさい。

A　あ地方公共団体は、住民などからい税金を集めて、わたしたちの生活に身近な仕事を行っています。

B　国や地方公共団体の政治は、主に、（ う ）によって選ばれた代表者が、話し合いによって進めます。人々は、（ う ）で投票することで、自分たちの意見を政治に反映させます。

(1)　下線部あの仕事にあてはまるものを、次の**ア**～**エ**から１つ選びなさい。（　　）

ア　犯罪に対する裁判を行う。　**イ**　外国との交渉を行う。

ウ　ごみの収集を行う。　**エ**　法律を定める。

(2)　下線部いについて、次の①・②の説明を、あとの**ア**～**エ**から１つずつ選びなさい。

①　所得税（　　）

②　消費税（　　）

ア　土地や建物にかかる。　**イ**　ものを買ったときにかかる。

ウ　会社員の給与にかかる。　**エ**　会社にかかる。

(3)　（ う ）に共通してあてはまることばを、漢字２字で書きなさい。

（　　）

2 国の政治　次のカードを見て、あとの問いに答えなさい。

国会

国民の代表である国会議員が、予算や法律を話し合って決定する。

内閣

①内閣総理大臣と国務大臣で構成され、実際に政治を行う。

裁判所

法にもとづいて裁判を行う。②裁判は、１つの事件につき３回まで受けられる。

(1)　国会、内閣、裁判所のうち、日本国憲法において、「国権の最高機関であり、国の唯一の立法機関である」と定められているものを１つ選びなさい。（　　）

(2)　国会の仕事を、次の**ア**～**エ**から２つ選びなさい。（　　）（　　）

ア　天皇の国事行為に対して助言と承認を行う。

イ　内閣が外国と結んだ条約を承認する。

ウ　法律や条約などを公布する。

エ　憲法改正案を審議し、憲法改正の発議を行う。

(3)　下線部①について述べた次の文中の（ **X** ）、（ **Y** ）にあてはまることばを、それぞれ答えなさい。

X（　　）　**Y**（　　）

・内閣総理大臣は、（ **X** ）の中から国会によって指名され、（ **Y** ）によって任命される。

(4)　下線部②のしくみをとっている理由を、次の**ア**～**エ**から１つ選びなさい。（　　）

ア　裁判に国民の意見を取り入れるため。

イ　裁判をできるだけ早く終わらせるため。

ウ　裁判のあやまりを防ぐため。

エ　裁判官の仕事を確保するため。

3 レベルアップ **右の図は、国会、内閣、裁判所の関係を示したものです。これを見て、次の問いに答えなさい。**

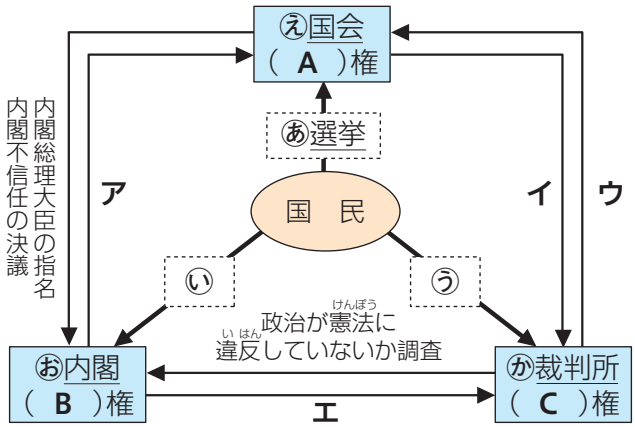

(1) 図中のA～Cにあてはまることばを、それぞれ書きなさい。

A（　　）

B（　　）

C（　　）

(2) 図中の下線部㋐について、日本で選挙権が認められる年齢は、何歳以上ですか。

（　　歳以上）

(3) 次の文は、図中の㋑、㋒について説明したものです。㋑、㋒にあてはまることばを書きなさい。

㋑ 社会や政治について、世の中の人がもっている意見。

（　　）

㋒ 最高裁判所の裁判官がふさわしいかどうかを判断する。

（　　）

(4) 右の表は、下線部�えのしくみを示したものです。X、Yにあてはまることばを、それぞれ書きなさい。

X（　　）

Y（　　）

X		Y
465人	議員数	248人
25歳以上	被選挙権	30歳以上
4年 解散がある	任期	6年 (3年ごとに半数を改選) 解散がない

(5) 下線部㋓について、次の①・②の問いに答えなさい。

① 下線部㋓を組織し、政権を担当する政党を何といいますか。

（　　）

② 下線部㋓のしくみのうち、学校の勉強の内容や分量を決めたり、学校の先生の数や建物の基準を決めたりする省庁を、次のア～エから1つ選びなさい。

ア 財務省　イ 国土交通省　ウ 文部科学省　エ 外務省　（　　）

(6) 下線部㋕で行われている裁判員制度について、次の①・②の問いに答えなさい。

① 裁判員は、どのような方法でどのような人が選ばれるか、書きなさい。

（　　）

② この制度が取り入れられている刑事裁判とは、どのような裁判か、簡単に書きなさい。

（　　）

(7) 次の①・②があてはまるものを、図中のア～エから1つずつ選びなさい。

① 法律が憲法に違反していないか調べる。（　　）

② 最高裁判所長官を指名する。（　　）

(8) 図のように、政治を進める機関を3つに分けて、それぞれがおたがいの仕事を監視するしくみを何といいますか。（　　）

(9) (8)のしくみをとっている理由を、「集中」「権利」ということばを使って、簡単に書きなさい。

（　　）

思考力のとびら

1 次の問いに答えなさい。

(1) **資料1**は、1946年に公布された日本国憲法前文の一部要約です。次の問いに答えなさい。

① **資料2**は、1889年に発布された大日本帝国憲法の一部要約です。**資料1**と**資料2**を比較して変化した点を、「主権」ということばを使って、簡単に書きなさい。

( )

資料1

ここに主権が国民にあることを宣言して、この憲法を定める。

(一部要約)

資料2

天皇は、国家の元首であり、国や国民を治める権限をもつ。

(一部要約)

② **資料3**は、憲法の改正と普通の法律の改正について示したものです。憲法の改正に国民投票が必要な理由を、**資料1**を参考にして、簡単に書きなさい。

( )

資料3

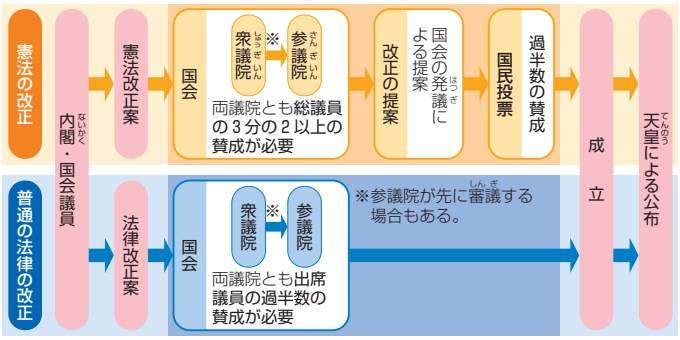

(2) **資料4**は、だれもが利用しやすい工夫がしてある多機能トイレです。次の問いに答えなさい。

資料4

① **資料4**と最も関係が深いことばを、次の**ア**～**エ**から1つ選びなさい。 ( )

ア トレーサビリティ　**イ** リサイクル

ウ ユニバーサルデザイン　**エ** マスメディア

② **資料4**と同様の考え方からつくられたものを、次の**ア**～**エ**から2つ選びなさい。

( ) ( )

ア 音声案内板

音声による案内が流れる

イ 電気自動車

ガソリンではなく電気で走る

ウ 回収ボックス

牛乳パックなどを回収する

エ 幅の広い改札口

改札口の幅が広くとってある

(3) 日本は、核兵器を「もたず、つくらず、もちこませず」という非核三原則をかかげており、核兵器をなくすことを強く世界にうったえています。その理由を、**資料5**を参考にして、簡単に書きなさい。

( )

資料5 原爆ドーム

2 日本の立法権、行政権、司法権の関係を示した右の図を見て、次の問いに答えなさい。

図

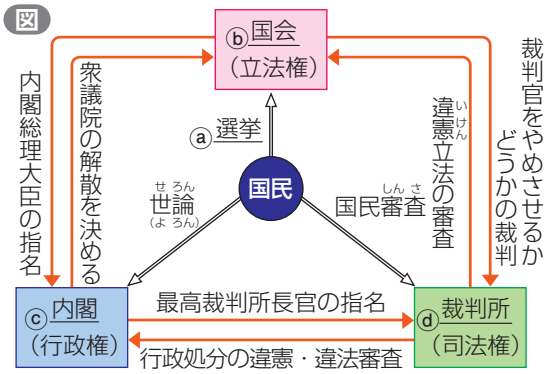

(1) 下線部ⓐについて、次の問いに答えなさい。

① **資料1**は、まいさんの家族構成と、それぞれの年齢を示したものです。次の**A**、**B**にあてはまる人数を書きなさい。

資料1

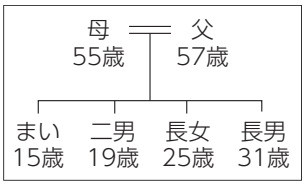

A 衆議院議員選挙で投票する権利をもつ人数 （　　）人

B 参議院議員に立候補する権利をもつ人数 （　　）人

② **資料2**から読み取れる内容として最も適当なものを、次の**ア**～**エ**から1つ選びなさい。 （　　）

資料2 衆議院議員選挙の年代別投票率の変化

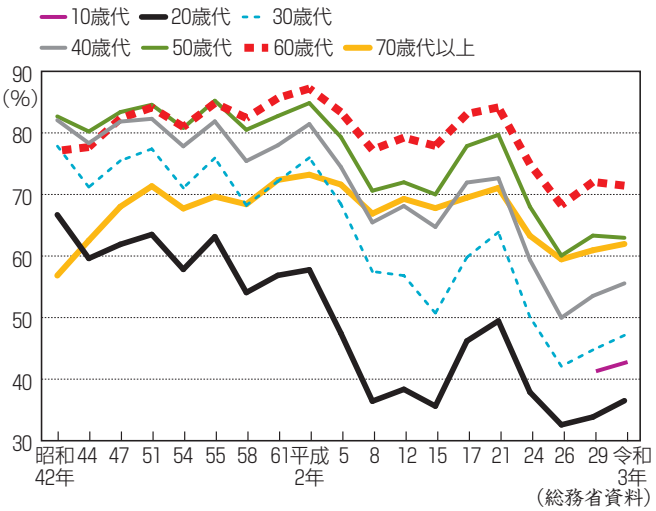

（総務省資料）

ア 10歳代をのぞくすべての年代で、昭和42年の選挙よりも平成29年の選挙の投票率が低い。

イ 平成に行われた選挙のうち、10歳代をのぞくすべての年代で最も投票率が低かったのは、平成15年の選挙である。

ウ 平成29年の選挙では、20歳代の国民のうち、およそ3人に2人が投票をしていない。

エ 令和3年の選挙では、年代が低いほど投票率も低い。

(2) 下線部ⓑについて、日本の国会は、衆議院と参議院の2つで構成されています。日本の国会が二院制をとっている理由を、法律ができるまでの流れを示した**資料3**を参考にして、簡単に書きなさい。

資料3

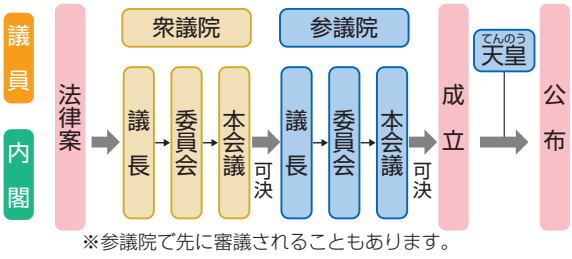

※参議院で先に審議されることもあります。

（　　）

(3) 下線部ⓒについて、内閣の最高責任者である内閣総理大臣はどのように選ばれますか。**図**を参考にしながら、「国民」ということばを使って、簡単に書きなさい。

（　　）

(4) 下線部ⓓについて、重大な刑事事件では、裁判員制度が取り入れられています。裁判員制度について説明した**資料4**を見て、この制度が取り入れられた目的を、簡単に書きなさい。

資料4

裁判員制度は、国民の中からくじで選ばれた人たちが、裁判官とともに刑事裁判に加わり、有罪・無罪の判断や、有罪の場合は刑罰を話し合う制度です。

（　　）