1 世界をながめてみよう

中学準備講座
スタートダッシュ
詳細はここをクリック！

1 大陸と海洋，世界の国々

次の地図中のA～Fにあてはまる大陸・海洋名を書きましょう。また，①～㉗にあてはまる国名を書き，首都名を，下の［　　］から選んで書きましょう。

A	
B	
C	
D	
E	
F	

●ヨーロッパ州

世界一の面積をもつ国。東西に長く，東西の端（はし）の時差は10時間

① 国名 ／ 首都

ヨーロッパ州最大の工業国

② 国名 ／ 首都

産業革命（かくめい）が世界で初めておこった国。首都は本初子午線（ほんしょしごせん）が通る

③ 国名 ／ 首都

ヨーロッパ州最大の農業国。首都は芸術の都とよばれる

④ 国名 ／ 首都

14世紀にルネサンスがおこった，長靴（ながぐつ）の形をした国

⑤ 国名 ／ 首都

●アフリカ州

チョコレートの原料カカオの生産がさかん

⑥ 国名 ／ 首都

アフリカの石油産出国

⑦ 国名 ／ 首都

ナイル川流域（りゅういき）に古代文明が発達した国

⑧ 国名 ／ 首都

アフリカの新興国。レアメタルの産出も多い

⑨ 国名 ／ 首都

ローマ　パリ　ロンドン　ベルリン　モスクワ　ヤムスクロ　カイロ
プレトリア　アルジェ

●アジア州

世界有数の原油埋蔵国。イスラム教徒が多い

⑩ 国名 / 首都

ヒンドゥー教徒が多い。情報通信技術（ICT）産業が発達している

⑪ 国名 / 首都

仏教徒が多い。米の輸出が世界有数

⑫ 国名 / 首都

天然ゴムの生産がさかん。工業化

⑬ 国名 / 首都

パーム油の生産がさかん。工業化

⑭ 国名 / 首都

現在の「世界の工場」「世界の市場」

⑮ 国名 / 首都

朝鮮半島の社会主義国

⑯ 国名 / 首都

最も近い日本の隣国

⑰ 国名 / 首都

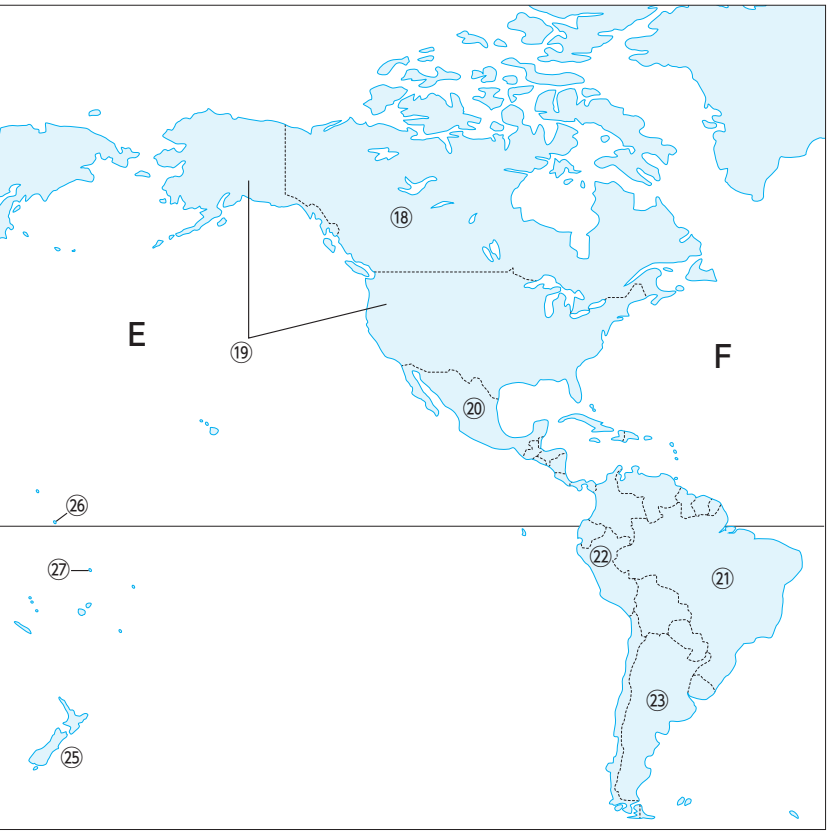

●北アメリカ州

広大な国土と豊かな森林資源や鉱産資源をもつ

⑱ 国名 / 首都

世界有数の工業国，農業国。「世界の食料庫」とよばれる

⑲ 国名 / 首都

⑱⑲と貿易協定を締結

⑳ 国名 / 首都

●南アメリカ州

農産物，鉱産資源の豊かな新興工業国。日系人が多い

㉑ 国名 / 首都

アンデス地方に高山都市が発達

㉒ 国名 / 首都

地球上で日本のほぼ真裏にある国

㉓ 国名 / 首都

●オセアニア州

１つの大陸で１つの国。コアラやカンガルーが有名

㉔ 国名 / 首都

牧羊のさかんな国

㉕ 国名 / 首都

世界で最も早く一日が始まる国の１つ

㉖ 国名 / 首都

温暖化による海面上昇で，水没する危険のある国

㉗ 国名 / 首都

バンコク　デリー　リヤド　ペキン　ピョンヤン　クアラルンプール　ソウル
ジャカルタ　ワシントンD.C.　メキシコシティ　オタワ　ブラジリア　リマ
ブエノスアイレス　フナフティ　キャンベラ　ウェリントン　タラワ

2 世界の国々ランキング

次の［　　］にあてはまる国名を書きましょう。

●国土面積の大きい国ベスト５

①第１位	②第２位	③第３位	④第４位	⑤第５位
約1710万km²。 日本の約45倍	約999万km²。 日本の約26倍	約983万km²。 日本の約26倍	約960万km²。 日本の約25倍	約852万km²。 日本の約22倍

●国土面積の最も小さい国

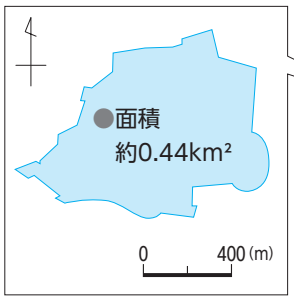

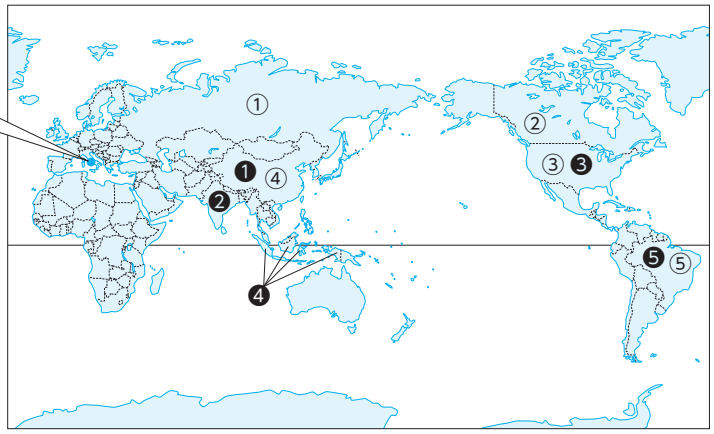

（2021/22年版「日本国勢図会」）

●人口の多い国ベスト５

❶第１位	❷第２位	❸第３位	❹第４位	❺第５位
約14億4000万人。 人口密度： 150人／km²	約13億8000万人。 人口密度： 420人／km²	約３億3000万人。 人口密度： 34人／km²	約２億7000万人。 人口密度： 143人／km²	約２億1000万人。 人口密度： 25人／km²

3 国旗から世界の国々を見てみよう

次の①～⑥の［　　］にあてはまる国名を，［　　］から選んで書きましょう。

●イギリスと関係の深い国々

ユニオンジャックが国旗に使用されている。

①［　　］

②［　　］

③［　　］

ツバル

［イギリス　　ニュージーランド　　オーストラリア］

4 さまざまな国境線

次の地図中の①～⑦の国境線に利用されているものとしてあてはまる語句を，［　　］から選んで書きましょう。また，⑧・⑨にあてはまる語句を書きましょう。

フランスと
スペインの国境
① ［　　］

日本と周辺の国々
との国境
② ［　　］

アメリカ合衆国と
カナダの国境
③ ［　　］

アメリカ合衆国と
メキシコの国境
⑥ ［　　］

アルゼンチンと
チリの国境
⑦ ［　　］

エジプトと
リビアの国境
④ ［　　］

エジプトと
スーダンの国境
⑤ ［　　］

⑧ ［　　］ 大陸に多く見られるまっすぐな国境線は，かつて，ヨーロッパに⑨ ［　　］ として支配されていたときの名残（なごり）。

経線	緯線（いせん）	…（人為的（じんいてき）国境）
河川	山脈	…（自然的国境）
海洋	湖	

（２回使うものもあります。）

●イスラム教国に多い，月と星のマークの国旗。

④ ［　　］

●国のシンボルとなっている木がえがかれている。

⑤ ［　　］

●国を代表する遺跡（いせき）アンコールワットがえがかれている。



⑥ ［　　］

カナダ　トルコ　カンボジア

練習問題

1 次の地図を見て，あとの問いに答えなさい。

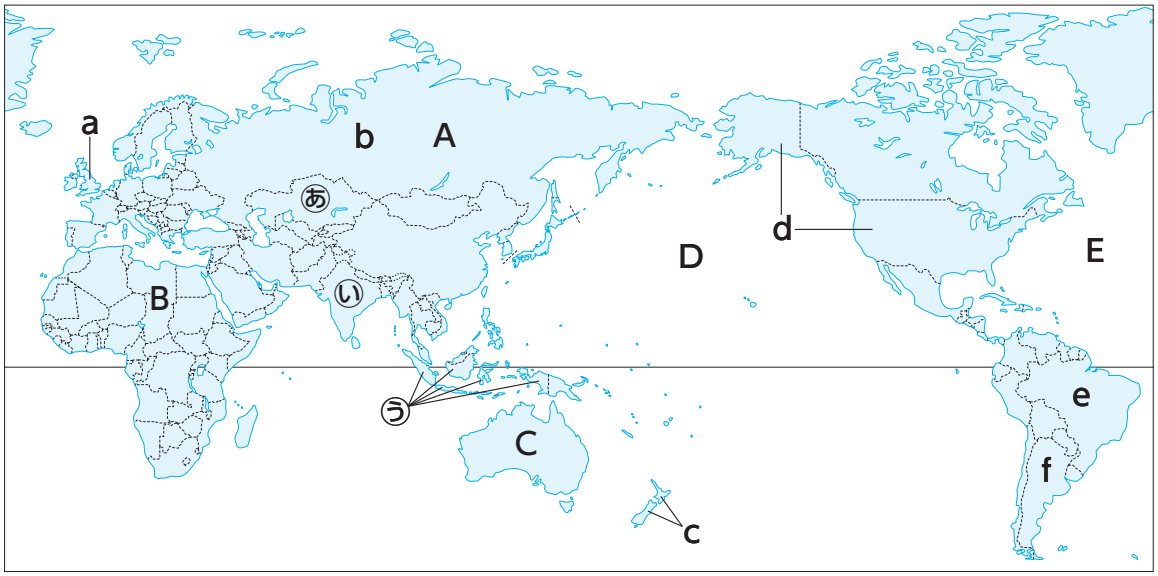

(1) A～Eにあてはまる大陸名，大洋名をそれぞれ書きなさい。

A（　　）　B（　　）　C（　　）
D（　　）　E（　　）

(2) 上の地図中にえがかれていない大陸名を書きなさい。

（　　）

(3) Aの大陸は，２つの州に分けられる。アジア州ともう１つは何州か。

（　　）

(4) Cの大陸が属する州名を書きなさい。（　　）

(5) アジア州を５つの地域に分けたとき，あ～うの国は何という地域に区分されるか。それぞれ書きなさい。

あ（　　）　い（　　）　う（　　）

(6) 次の文にあてはまる国を，地図中のa～fから１つずつ選び，記号と国名を書きなさい。また，文中の（　　）にあてはまる語句を書きなさい。

① 鉄鉱石などの（　　）や，さとうきびや大豆などの農作物が豊富な新興工業国。かつて日本人移民が海をわたったため多くの日系人が暮らすが，日本からは最も遠い地域に位置している。

記号（　　）　国名（　　）　語句（　　）

② 経度０度の（　　）線が通る国。かつて世界中に植民地を持つ大国であった。EUの構成国であったが，2020年に離脱（りだつ）した。

記号（　　）　国名（　　）　語句（　　）

③ 世界で最も国土面積が広い国で，世界の陸地面積の１割以上をしめる。複数の標準時を有し，東西の端（はし）の（　　）は10時間におよぶ。

記号（　　）　国名（　　）　語句（　　）

④ 世界有数の工業国であり，農業国でもある。多くの国に農産物を輸出し，「（　　）」として世界に影響（えいきょう）力をもつ。かつて日本との間に貿易摩擦（まさつ）がおき，日本が最初に工業製品の現地生産を始めた。

記号（　　）　国名（　　）　語句（　　）

2 次の問いに答えなさい。

(1) 次の文中の(　　)にあてはまる語句や数字をそれぞれ書きなさい。

世界で最も国土面積が大きい国はロシア連邦で，日本の国土面積の約(　①　)倍ある。第２位は(　②　)，第３位は(　③　)である。最も面積が小さい国は(　④　)で，(　⑤　)の首都ローマの市内に位置している。

①(　　)　②(　　)　③(　　)
④(　　)　⑤(　　)

(2) 人口の多い順に１位から３位まで並べたものとして正しいものを，次の**ア**～**エ**から１つ選び，記号で答えなさい。

ア	１位－インド	２位－中国	３位－インドネシア
イ	１位－インドネシア	２位－中国	３位－アメリカ合衆国
ウ	１位－中国	２位－アメリカ合衆国	３位－インド
エ	１位－中国	２位－インド	３位－アメリカ合衆国

(　　)

3 次の地図を見て，あとの問いに答えなさい。

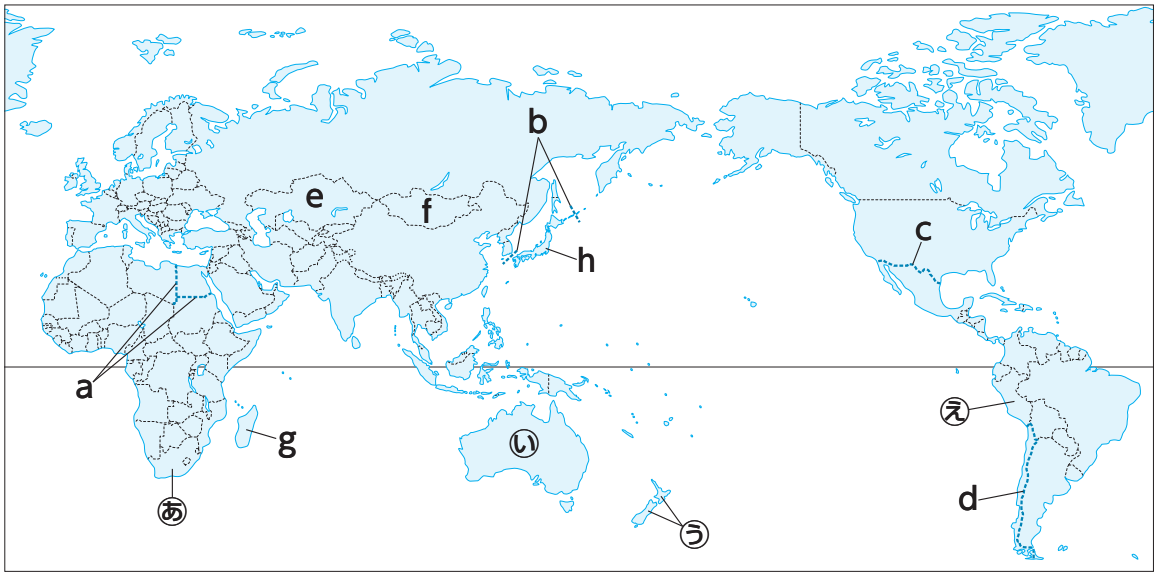

(1) 右の①・②の国旗にあてはまる国を，地図中の㋐～㋓から１つずつ選び，記号で答えなさい。

①(　　)　②(　　)

①

②

(2) ①・②の国旗のなかには，①・②とは別の国の国旗が使用されている。この国の名を書きなさい。(　　)

(3) 地図中のａ～ｄの国境線に利用されているものを，次の**ア**～**エ**から１つずつ選び，記号で答えなさい。

ア　河川　　**イ**　山脈　　**ウ**　海洋　　**エ**　経緯線

ａ(　　)　ｂ(　　)
ｃ(　　)　ｄ(　　)

(4) 次のような国を何というか，それぞれ書きなさい。

①　地図中のｅやｆのように，海と接していない国。(　　)
②　地図中のｇやｈのように，まわりを海に囲まれた国。(　　)